

Numele şi prenumele elevului: _____
Clasa: _____
Modulul: _____
Data: _____

Fişă de lucru

Aspectul la microscop al fibrelor chimice artificiale

Recunoaşteţi tipurile de fibre prezentate în tabelul de mai jos şi descrieţi aspectul la microscop al acestora în secţiune longitudinală şi transversală.

Imagini	Tipul de fibră	Aspectul la microscop	
		în secţiune longitudinală	în secţiune transversală
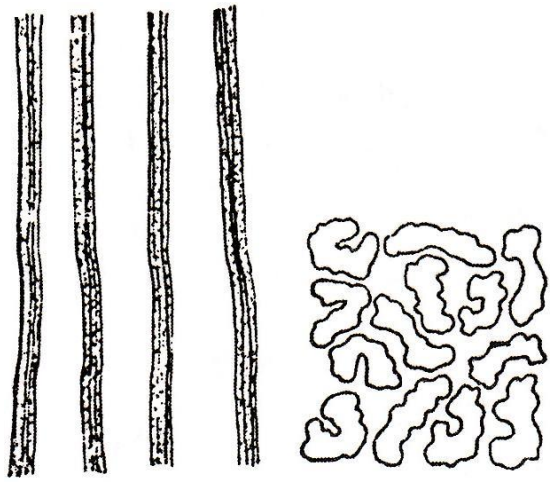	…… ……	…… …… …… …… …… …… …… …… …… …… ……	…… …… …… …… …… …… …… …… …… …… ……
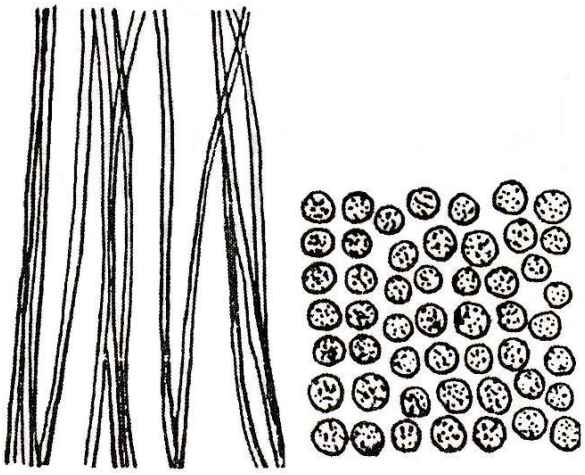	…… ……	…… …… …… …… …… …… …… …… …… …… ……	…… …… …… …… …… …… …… …… …… …… ……
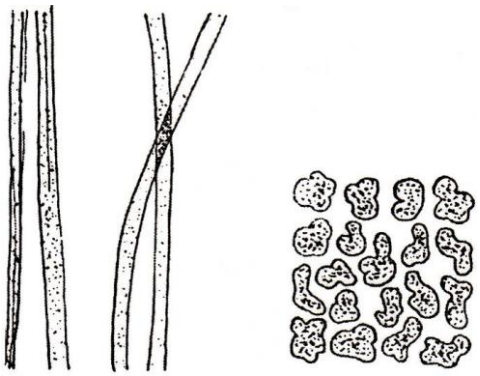	…… ……	…… …… …… …… …… …… …… …… …… …… ……	…… …… …… …… …… …… …… …… …… …… ……